TỔNG LIÊN ĐOÀN LAO ĐỘNG VIỆT NAM
LIÊN ĐOÀN LAO ĐỘNG TỈNH QUẢNG NGÃI
Số: 67/TB-LĐLĐ

CỘNG HOÀ XÃ HỘI CHỦ NGHĨA VIỆT NAM
Độc lập - Tự do - Hạnh phúc

Quảng Ngãi, ngày 01 tháng 4 năm 2024

THÔNG BÁO
Lịch tổ chức Hội thi tuyên truyền đảm bảo trật tự an toàn giao thông trong công nhân, lao động năm 2024

Thực hiện Kế hoạch số 35/KH-LĐLĐ ngày 27/3/2024 của Liên đoàn Lao động tỉnh về việc tổ chức Hội thi tuyên truyền pháp luật về an toàn giao thông trong công nhân, lao động năm 2024, Liên đoàn Lao động tỉnh thông báo lịch tổ chức Hội thi thứ nhất như sau:

1. Thời gian: 01 buổi, bắt đầu vào lúc **14h30 ngày 13/4/2024.**

2. Địa điểm: Cơ quan Liên đoàn Lao động tỉnh (địa chỉ số 137 đường Trương Quang Trọng, TP. Quảng Ngãi).

3. Nội dung, hình thức, thành phần, số lượng tham gia: Thực hiện theo Kế hoạch số 35/KH-LĐLĐ ngày 27/3/2024 của Liên đoàn Lao động tỉnh.

(Xin gửi kèm bộ câu hỏi tham khảo phần thi trắc nghiệm)

Đề nghị các đơn vị phối hợp triển khai thực hiện đạt kết quả./.

TM. BAN THƯỜNG VỤ
PHÓ CHỦ TỊCH

LIÊN ĐOÀN LAO ĐỘNG VIỆT NAM
BAN CHẤP HÀNH LIÊN ĐOÀN LAO ĐỘNG TỈNH QUẢNG NGÃI

Nguyễn Thị Việt Hiển

Nơi nhận:
- Ban ATGT tỉnh;
- Thường trực LĐLĐ tỉnh;
- Văn phòng LĐLĐ tỉnh;
- Công đoàn KKT Dung Quất và các KCN Quảng Ngãi;
- LĐLĐ TP Quảng Ngãi;
- LĐLĐ huyện Tư Nghĩa;
- Lưu: VT, TG-NC.

LIÊN ĐOÀN LAO ĐỘNG TỈNH QUẢNG NGÃI
BAN TUYÊN GIÁO NỮ CÔNG

CỘNG HÒA XÃ HỘI CHỦ NGHĨA VIỆT NAM
Độc lập - Tự do - Hạnh phúc

Quảng Ngãi, ngày 01 tháng 4 năm 2024

BỘ CÂU HỎI THAM KHẢO PHẦN THI TRẮC NGHIỆM TÌM HIỂU PHÁP LUẬT VỀ AN TOÀN GIAO THÔNG NĂM 2024

Câu 1. Khi người lái xe ô tô dừng, đỗ sát theo lề đường, hè phố phía bên phải theo chiều đi của mình, bánh xe gần nhất không được cách xa lề đường, hè phố quá bao nhiêu mét trong các trường hợp dưới đây để không gây cản trở, nguy hiểm cho giao thông?

A. 0.25 m

B. 0.35 m

C. 0.40 m

D. 0.50 m

Câu 2. Khi dừng, đỗ xe trên đường phố hẹp, người lái xe ô tô phải dừng, đỗ xe ở vị trí cách xe ô tô đang đỗ bên kia đường khoảng cách tối thiểu là bao nhiêu mét trong các trường hợp dưới đây để đảm bảo an toàn giao thông?

A. 5 mét.

B. 10 mét.

C. 15 mét.

D. 20 mét.

Câu 3. Khi có tín hiệu của xe ưu tiên, người tham gia giao thông phải làm gì trong các phương án sau đây?

A. Nhanh chóng giảm tốc độ, tránh hoặc dừng lại sát lề đường bên trái để nhường đường.
B. Nhanh chóng tăng tốc độ, tránh sát lề đường để nhường đường cho xe ưu tiên, không được gây cản trở xe được quyền ưu tiên.

C. Nhanh chóng giảm tốc độ, tránh hoặc dừng lại sát lề đường bên phải để nhường đường cho xe ưu tiên, không được gây cản trở xe được quyền ưu tiên.

D. Nhanh chóng tăng tốc độ, điều khiển xe vào khoảng trống trên đường nhường đường cho xe ưu tiên, không được gây cản trở xe được quyền ưu tiên.

Câu 4: Người lái xe sử dụng đèn như thế nào khi lái xe trong khu đô thị và đông dân cư vào ban đêm để đảm bảo an toàn?

A. Chỉ bật đèn chiếu xa khi không nhìn rõ đường.

B. Chỉ được bật đèn chiếu gần.

C. Bật đèn chiếu xa khi đường vắng, bật đèn chiếu gần khi có xe đi ngược chiều.
D. Có thể bật bất cứ đèn nào để đảm bảo có thể nhìn rõ phía trước.

Câu 5. Theo quy định hiện hành, người từ đủ 16 tuổi đến dưới 18 tuổi điều khiển xe mô tô có dung tích xi lanh từ 50 cm3 trở lên sẽ bị xử phạt như thế nào?

A. Phạt tiền từ 100.000 đồng đến 200.000 đồng.

B. Phạt tiền từ 200.000 đồng đến 400.000 đồng.

C. Phạt tiền từ 400.000 đồng đến 600.000 đồng.

D. Phạt tiền từ 400.000 đồng đến 600.000 đồng và bị tạm giữ phương tiện 07 ngày.

Câu 6. Theo quy định hiện hành, người điều khiển xe mô tô hai bánh có dung tích xi lanh dưới 175 cm3 và các loại xe tương tự xe mô tô, mức phạt tiền từ 1.000.000 đồng đến 2.000.000 đồng áp dụng cho hành vi vi phạm nào dưới đây?

A. Không giữ khoảng cách an toàn để xảy ra va chạm với xe chạy liền trước hoặc không giữ khoảng cách theo quy định của biển báo hiệu "Cự ly tối thiểu giữa hai xe".

B. Không làm thủ tục đổi lại Giấy đăng ký xe theo quy định khi thay đổi địa chỉ của chủ xe hoặc các trường hợp khác theo quy định.

C. Không có Giấy phép lái xe hoặc sử dụng Giấy phép lái xe không do cơ quan có thẩm quyền cấp, Giấy phép lái xe bị tẩy xóa.

D. Tất cả các ý trên.

Câu 7. Hãy lựa chọn phương án đúng trong các phương án dưới đây về nội dung và sắp xếp các bước để điều khiển phương tiện qua đường giao nhau không có tín hiệu đèn giao thông.

(1) Đưa ra tín hiệu báo hướng rẽ nếu chuyển hướng.

(2) Chú ý quan sát an toàn ở mọi phía (trái, phải, trước, sau).

(3) Giảm tốc độ.

(4) Khi thấy không có xe nào đang đến gần mới đi qua nhưng vẫn chú ý quan sát an toàn.

A. 1-2-3-4

B. 2-1-3-4

C. 3-2-1-4

D. 2-3-4-1

Câu 8. Biển nào dưới đây cấm mọi (các) loại xe cơ giới đi vào, trừ xe gắn máy, xe mô tô hai bánh và các loại xe ưu tiên?



A. Biển 1

B. Biển 2

C. Biển 3

D. Biển 4

Câu 9: Vạch kẻ đường dưới đây có tác dụng gì? Đơn vị: mét

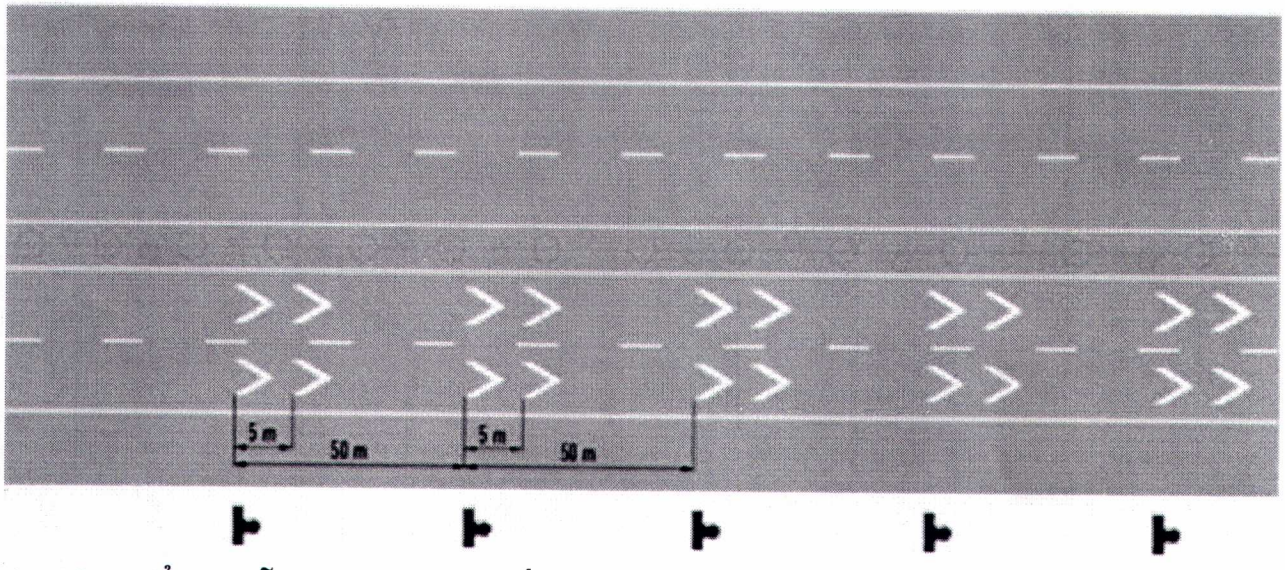

A. Dùng để chỉ dẫn khoảng cách đến vị trí nhập làn

B. Dùng để xác định khoảng cách giữa các phương tiện trên đường.

C. Báo hiệu người lái xe chỉ được phép đi thẳng.

D. Dùng để xác định ranh giới làn đường có thể thay đổi hướng xe chạy trên đó.

Câu 10. Hành vi đi xe đạp nào dưới đây vi phạm quy tắc giao thông đường bộ?

A. Đi vào phần đường, làn đường dành cho xe đạp, xe thô sơ và đi về phía bên phải theo chiều đi của mình.

B. Sử dụng ô (dù), điện thoại di động, thiết bị âm thanh khi đang điều khiển phương tiện.

C. Khi muốn chuyển hướng, người điều khiển xe đạp cần giảm tốc độ và có tín hiệu báo hướng rẽ.

D. Tuân thủ tín hiệu đèn giao thông và các hiệu lệnh của người điều khiển giao thông.

Câu 11. Khi đang lên dốc, người ngồi trên xe mô tô có được phép kéo, đẩy theo người đang điều khiển xe đạp không?

A. Chỉ được phép thực hiện khi tất cả đều đội mũ bảo hiểm.

B. Chỉ được phép thực hiện trên đoạn đường vắng.

C. Không được phép thực hiện.

D. Chỉ được phép khi người đi xe đạp đã quá mệt.

Câu 12. Trường hợp nào dưới đây, người lái xe phải giảm tốc độ, chú ý quan sát và chuẩn bị sẵn sàng đối mặt với những tình huống có thể xảy ra để phòng ngừa tai nạn?

A. Khi gặp biển chỉ dẫn trên đường.

B. Khi gặp biển báo nguy hiểm trên đường.

C. Khi gặp biển báo hết mọi lệnh cấm.

D. Khi gặp biển báo hết hạn chế tốc độ tối đa cho phép.

Câu 13. Chọn phương án điền các từ còn thiếu trong nội dung mô tả các bước về "Đội mũ bảo hiểm an toàn" sau đây.

"Chọn mũ bảo hiểm vừa với …, bảo đảm …; mở … sang hai bên, đội mũ vào đầu; chỉnh dây quai mũ hai bên cho sát phía dưới tai; cài … ôm dưới cằm sao cho có thể luồn … giữa cằm và quai mũ."

A. kích cỡ đầu – đạt chuẩn – dây quai mũ – khóa quai mũ – hai ngón tay.

B. sở thích – an toàn – dây quai mũ – khóa quai mũ – hai ngón tay.

C. kích cỡ đầu – chắc chắn – khóa quai mũ – dây quai mũ – bàn tay.

D. sở thích – đạt chuẩn – dây quai mũ – khóa quai mũ – bàn tay.

Câu 14. Luật Giao thông đường bộ quy định người điều khiển xe thô sơ, xe cơ giới và xe máy chuyên dùng phải đi như thế nào trên đường một chiều có vạch kẻ phân làn đường?

A. Xe cơ giới, xe máy chuyên dùng đi trên làn đường phù hợp không gây cản trở giao thông, xe thô sơ phải đi trên làn đường bên phải.

B. Xe cơ giới, xe máy chuyên dùng đi trên làn đường bên phải trong cùng, xe thô sơ phải đi trên làn đường bên trái.

C. Xe thô sơ đi trên làn đường phù hợp không gây cản trở giao thông, xe cơ giới, xe máy chuyên dung đi trên làn đường bên phải.

D. Xe thô sơ phải đi trên làn đường bên phải trong cùng, xe cơ giới, xe máy chuyên dùng đi trên làn đường bên trái.

Câu 15. Theo quy định hiện hành, người từ đủ 14 tuổi đến dưới 16 tuổi điều khiển xe mô tô, xe gắn máy kể cả xe máy điện sẽ bị xử phạt như thế nào?

A. Phạt tiền từ 80.000 đồng đến 100.000 đồng.

B. Phạt tiền từ 100.000 đồng đến 200.000 đồng.

C. Người điều khiển phương tiện bị phạt cảnh cáo.

D. Người điều khiển phương tiện bị phạt cảnh cáo và bị tạm giữ phương tiện 07 ngày

Câu 16. Khi gặp hiệu lệnh của người điều khiển giao thông dang ngang hai tay hoặc một tay, người tham gia giao thông phải thực hiện hành vi nào sau đây?

A. Người tham gia giao thông ở phía trước và ở phía sau người điều khiển giao thông phải dừng lại; người tham gia giao thông ở phía bên phải và bên trái của người điều khiển giao thông được đi.

B. Người tham gia giao thông ở phía bên phải và bên trái người điều khiển giao thông dừng lại; người tham gia giao thông ở phía trước và phía sau người điều khiển giao thông được đi.

C. Người tham gia giao thông ở phía trước, phía sau, bên trái, bên phải của người điều khiển giao thông phải giảm tốc độ và dừng lại trước vạch dừng.
D. Người tham gia giao thông ở phía trước, phía sau, bên trái, bên phải của người điều khiển giao thông phải nhanh chóng tăng tốc và vượt qua điểm giao nhau.

Câu 17. Biển báo nào dưới đây chỉ đường dành cho người đi bộ, các loại xe không được phép đi vào?



Biển 1



Biển 2



Biển 3

A. Biển 1;

B. Biển 2;

C. Biển 3;

D. Cả 3 biển.

Câu 18. Biển báo nào dưới đây báo hiệu sắp đi đến đoạn đường đôi có dải phân cách cứng ở giữa?



A. Biển 1

B. Biển 2

C. Biển 3

D. Biển 4

Câu 19. Trong tình huống dưới đây, theo hướng mũi tên, những hướng nào dưới đây người điều khiển xe đạp điện được phép đi?



A. Hướng 1.

B. Hướng 2 và 3.

C. Hướng 1 và 3.

D. **Hướng 1, 2 và 3.**

Câu 20: Thứ tự các xe đi như thế nào là đúng quy tắc giao thông?



A. Xe khách, xe tải, mô tô, xe con.

B. Xe con, xe khách, xe tải, mô tô.

C. Mô tô, xe tải, xe khách, xe con.

D. Mô tô, xe tải, xe con, xe khách

Câu 21: Tại nơi đường giao nhau có báo hiệu đi theo vòng xuyến, người điều khiển phương tiện phải nhường đường như thế nào?

A. Phải nhường đường cho xe đi bên trái

B. Xe báo hiệu xin đường trước xe đó được đi trước.

C. Phải nhường đường cho xe đi bên phải.

D. Không cần nhường đường.

Câu 22: Khi vượt xe khác phải đảm bảo những điều kiện gì?

A. Không có chướng ngại vật ở phía trước, không có xe chạy ngược chiều trong đoạn đường định vượt;

B. Xe chạy trước không có tín hiệu vượt xe khác và đã tránh về bên phải, xe vượt phải vượt về bên trái (trừ các trường hợp đặc biệt);

C. Phải báo hiệu bằng đèn hoặc còi, trong đô thị và khu đông dân từ 22h đến 5h chỉ được báo hiệu xin vượt bằng đèn.

D. Tất cả những điều kiện trên

Câu 23. Người ngồi trên xe mô tô hai bánh, xe mô tô ba bánh, xe gắn máy khi tham gia giao thông có được sử dụng ô khi trời mưa hay không?

A. Được sử dụng.

B. Chỉ người ngồi sau được sử dụng.

C. Không được sử dụng.

D. Được sử dụng nếu không có áo mưa.

Câu 24: Trong đô thị và khu đông dân cư từ 22 giờ đến 5 giờ xe xin vượt phải báo hiệu như thế nào?

A. Báo hiệu bằng đèn

B. Báo hiệu bằng còi (kèn)

C. Báo hiệu bằng đèn và còi (kèn)

D. Không được vượt.

Câu 25: Tiêu chí văn hóa giao thông đường bộ hiện nay được ban hành theo văn bản nào sau đây?

A. Luật giao thông đường bộ 2008.

B. Nghị định số 100/2019/NĐ-CP của Chính phủ quy định xử phạt vi phạm hành chính trong lĩnh vực giao thông đường bộ và đường sắt.

C. Quyết định 3500/QĐ-BVHTT&DL ngày 09/10/2013 của Bộ trưởng Bộ Văn hóa Thể thao & Du lịch.

D. Nghị định 38/2021/NĐ-CP quy định xử phạt vi phạm hành chính trong lĩnh vực văn hóa và quảng cáo.

Câu 26: Hành vi sử dụng xe mô tô để kéo, đẩy xe mô tô khác bị hết xăng đến trạm mua xăng có được phép hay không?

A. Chỉ được phép nếu thật sự cần thiết

B. Chỉ được thực hiện trên đường thật vắng

C. Chỉ được phép không có ai giúp đỡ

D. Nghiêm cấm kéo, đẩy phương tiện khác

Câu 27: Những người có mặt tại nơi xảy ra tai nạn giao thông có trách nhiệm gì?

A. Bảo vệ hiện trường, giúp đỡ, cứu chữa kịp thời, bảo vệ tài sản của người bị nạn;

B. Báo tin ngay cho cơ quan công an, y tế hoặc Uỷ ban nhân dân nơi gần nhất;

C. Cung cấp thông tin sát thực về vụ tai nạn theo yêu cầu của cơ quan có thẩm quyền;

D. Tất cả ba trách nhiệm nêu trên.

Câu 28: Ban đêm, xe cơ giới đi ngược chiều gặp nhau, đèn chiếu sáng phải sử dụng như thế nào là đúng quy tắc giao thông?

A. Chuyển từ đèn chiếu gần sang đèn chiếu xa.

B. Phải chuyển từ đèn chiếu xa sang đèn chiếu gần.

C. Tắt đèn, sau khi phương tiện ngược chiều đi qua thì mở đèn trở lại và lưu thông bình thường

D. Nháy đèn liên tục để phương tiện ngược chiều dễ nhận biết.

Câu 29: Người điều khiển phương tiện được dừng xe, đỗ xe tại các vị trí nào sau đây?

A. Bên trái đường một chiều;

B. Song song với một xe khác đang dừng, đỗ;

C. Ngoài phạm vi 5 mét hai bên cổng trụ sở cơ quan, tổ chức và không có biển báo cấm;

D. Trong phạm vi an toàn của đường sắt;

Câu 30: Khi điều khiển xe cơ giới chạy trên đường, người lái xe phải mang theo các loại giấy tờ gì?

A. Giấy chứng nhận tốt nghiệp, khóa đào tạo của hãng đang điều khiển, đăng kí xe, giấy lưu hành xe.

B. Giấy phép lái xe phù hợp với loại xe đó, lệnh vận chuyển, đăng kí xe, giấy chứng nhận kiểm tra chất lượng an toàn kỹ thuật và bảo vệ môi trường của xe cơ giới sau khi cải tạo, giấy phép vận chuyển (nếu loại xe đó cần phải có)

C. Giấy phép lái xe phù hợp với loại xe đó, đăng kí xe, giấy chứng nhận kiểm định kỹ thuật và bảo vệ môi trường, giấy chứng nhận bảo hiểm trách nhiệm dân sự của chủ xe cơ giới và giấy phép vận chuyển (nếu loại xe đó cần phải có), các giấy tờ còn giá trị sử dụng.

D. Giấy phép lái xe phù hợp với loại xe đó, đăng kí xe, giấy chứng nhận kiểm định kỹ thuật và bảo vệ môi trường, giấy chứng nhận bảo hiểm trách nhiệm dân sự của chủ xe cơ giới, giấy chứng nhận tốt nghiệp, khóa đào tạo của hãng đang điều khiển, đăng kí xe, giấy lưu hành xe.

Câu 31: Hai xe đi ngược chiều nhường đường khi tránh nhau như thế nào là đúng quy tắc giao thông?

A. Nơi đường hẹp chỉ đủ cho một xe chạy và có chỗ tránh xe thì xe nào ở gần chỗ tránh hơn phải vào vị trí tránh, nhường đường cho xe kia đi;

B. Xe xuống dốc phải nhường đường cho xe lên dốc;

C. Xe nào có chướng ngại vật phía trước phải nhường đường cho xe kia đi;

D. Tất cả các ý nêu trên.

Câu 32: Luật Phòng, chống tác hại của rượu, bia (Luật số 44/2019/QH14) có hiệu lực thi hành từ ngày tháng năm nào?

A. Ngày 14/6/2019

B. Ngày 31/12/2019

C. Ngày 01/01/2020

D. Ngày 02/01/2020

Câu 33: Người lái xe không được lùi xe ở những khu vực nào dưới đây?

A. Ở khu vực cho phép đỗ xe

B. Ở khu vực cấm dừng và trên phần đường dành cho người đi bộ qua đường.

C. Nơi đường bộ giao nhau, đường bộ giao nhau cùng mức với đường sắt, nơi tầm nhìn bị che khuất, trong hầm đường bộ, đường cao tốc.

D. Cả ý B và ý C

Câu 34: Người điều khiển xe đạp máy, xe máy điện có bắt buộc đội mũ bảo hiểm không?

A. Không phải đội mũ bảo hiểm.

B. Phải đội mũ bảo hiểm.

C. Phải Đội mũ bảo hiểm có cài quai đúng quy cách.

D. Chỉ đội mũ bảo hiểm khi di chuyển trên các tuyến Quốc lộ.

Câu 35: Tại các điểm giao cắt giữa đường bộ và đường sắt, quyền ưu tiên thuộc về loại phương tiện nào dưới đây?

A. Xe cứu hỏa;

B. Xe cứu thương;

C. Phương tiện giao thông đường sắt;

D. Ô tô, mô tô và xe máy chuyên dùng.

Câu 36: Người đủ 16 tuổi được điều khiển các loại xe nào dưới đây?

A. Xe mô tô 2 bánh có dung tích xi-lanh từ 50 cm^3 trở lên.

B. Xe gắn máy có dung tích xi-lanh dưới 50 cm^3.

C. Xe ô tô tải dưới 3.500 kg; xe chở người đến 9 chỗ ngồi.

D. Tất cả các ý nêu trên.

Câu 37: Khi điều khiển xe cơ giới, người lái xe phải bật đèn tín hiệu báo rẽ trong trường hợp nào sau đây?

A. Khi cho xe chạy thẳng.

B. Trước khi thay đổi làn đường.

C. Trong khi thay đổi làn đường

D. Sau khi thay đổi làn đường.

Câu 38. Biển nào cấm người đi bộ ?



1



2



3

1- Biển 1.

2- Biển 1 và 3.

3- Biển 2.

4- Biển 2 và 3

Câu 39. Gặp biển nào người lái xe phải nhường đường cho người đi bộ ?



1 2 3

1- Biển 1.

2- Biển 3.

3- Biển 2.

4- Biển 1 và 3.

Câu 40: Biển nào báo hiệu sắp đến chỗ giao nhau nguy hiểm ?



1 2 3

1- Biển 1 và 2.

2- Biển 2 và 3.

3- Biển 1.

4- Cả ba biển.

Câu 41: Biển nào báo hiệu sắp đến chỗ giao nhau với đường sắt có rào chắn?



1 2 3

1- Biển 1.

2- Biển 2 và 3.

3- Biển 3

4- Biển 1 và 3

Câu 42: Biển nào báo hiệu đường sắt giao nhau với đường bộ không có rào chắn ?



1 2 3

1- Biển 1 và 2.

2- Biển 2 và 3.

3- Biển 1 và 3.

4- Cả ba biển.

Câu 43: Biển nào báo hiệu, chỉ dẫn xe đi trên đường này được quyền ưu tiên qua nơi giao nhau ?



1 2 3

1- Biển 1 và 2.

2- Biển 1 và 3.

3- Cả ba biển.

4- Biển 2 và 3.

Câu 44: Biển nào báo hiệu "Đường giao nhau" của các tuyến đường cùng cấp ?



1 2 3

1- Biển 1.

2- Biển 3.

3- Biển 2.

4- Biển 1 và 3

Câu 45. Khái niệm "đường cao tốc" được hiểu như thế nào là đúng?

A. Đường dành riêng cho xe cơ giới được phép đi vào theo quy định của Luật Giao thông đường bộ

B. Có dải phân cách phân chia đường cho xe chạy hai chiều riêng biệt mà dải phân cách này xe không đi được lên trên; không giao nhau cùng mức với một hoặc một số đường khác.

C. Được bố trí đầy đủ trang thiết bị phục vụ, bảo đảm giao thông liên tục, an toàn, rút ngắn thời gian hành trình và chỉ cho xe ra, vào ở những điểm nhất định.

D. **Tất cả các ý trên.**

Câu 46. Trên đường có nhiều làn đường, khi điều khiển phương tiện ở tốc độ chậm bạn phải đi ở làn đường nào?

A. Đi ở làn bên phải.

B. Đi ở làn phía bên trái.

C. Đi ở làn giữa.

D. Đi ở bất cứ làn nào nhưng phải bấm đèn cảnh báo nguy hiểm để báo hiệu cho các phương tiện khác.

Câu 47. Bạn đang lái xe phía trước có một xe cảnh sát giao thông không phát tín hiệu ưu tiên bạn có được phép vượt hay không?

A. Không được vượt.

B. Được vượt khi đang đi trên cầu.

C. Được phép vượt khi đi qua nơi giao nhau có ít phương tiện cùng tham gia giao thông.

D. Được vượt khi đảm bảo an toàn.

Câu 48. Bạn đang lái xe trong khu dân cư, có đông xe qua lại, nếu muốn quay đầu xe bạn cần làm gì để tránh ùn tắc và đảm bảo an toàn giao thông?

A. Đi tiếp đến điểm giao cắt gần nhất hoặc nơi có biển báo cho phép quay đầu xe.

B. Bấm đèn khẩn cấp và quay đầu xe từ từ bảo đảm an toàn.

C. Bấm còi liên tục khi quay đầu xe để cảnh báo các xe khác.

D. Nhờ một người ra hiệu giao thông trên đường chậm lại trước khi quay đầu.

Câu 49. Người có giấy phép lái xe mô tô hạng A1 không được phép điều khiển loại xe nào dưới đây?

A. Xe mô tô có dung tích xi-lanh 125 cm3

B. Xe mô tô có dung tích xi-lanh từ 175 cm3 trở lên.

C. Xe mô tô có dung tích xi-lanh 100 cm3.

D. Cả 3 phương án trên

Câu 50. Người điều khiển xe mô tô hai bánh, xe gắn máy được phép chở tối đa 2 người trong những trường hợp nào?

A. Chở người bệnh đi cấp cứu; trẻ em dưới 14 tuổi.

B. Áp giải người có hành vi vi phạm pháp luật.

C. Khi có việc cần thiết.

D. Cả ý A và ý B.

Câu 51. Tốc độ tối đa cho phép đối với xe máy chuyên dùng, xe gắn máy (kể cả xe máy điện) và các loại xe tương tự trên đường bộ (trừ đường cao tốc) không được vượt quá bao nhiêu km/h?

A. 50 km/h.

B. 40 km/h.

C. 60 km/h.

D. 30km/h

Câu 52. Người lái xe phải giảm tốc độ thấp hơn tốc độ đến mức cần thiết, chú ý quan sát và chuẩn bị sẵn sàng những tình huống có thể xảy ra để phòng ngừa tai nạn trong các trường hợp nào dưới đây?

A. Gặp biển báo nguy hiểm trên đường.

B. Gặp biển chỉ dẫn trên đường.

C. Gặp biển báo hết mọi lệnh cấm.

D. Gặp biển báo hết hạn chế tốc độ tối đa cho phép.

Câu 53. Khi điều khiển phương tiện tham gia giao thông, những hành vi nào dưới đây bị nghiêm cấm?

A. Thay đổi tốc độ của xe trên đường bộ.

B. Thay đổi tay số của xe trên đường bộ.

C. Lạng lách, đánh võng trên đường bộ.

D. Tất cả phương án trên

Câu 54. Khi muốn lùi xe nhưng không quan sát được phía sau, cần phải làm gì để đảm bảo an toàn?

A. Phải lùi thật chậm.

B. Có thể được lùi xe nhưng phải mở cửa xe.

C. Không được lùi xe.

D. Bấm còi 3 lần liên tiếp trước khi lùi.

Câu 55. Tại nơi đường giao nhau, khi đèn điều khiển giao thông có tín hiệu màu vàng, người điều khiển phương tiện giao thông phải chấp hành như thế nào là đúng quy tắc giao thông?

A. Phải cho xe dừng lại trước vạch dừng, trường hợp đã đi quá vạch dừng hoặc đã quá gần vạch dừng nếu dừng lại thấy nguy hiểm thì được đi tiếp.

B. Trong trường hợp tín hiệu vàng nhấp nháy là được đi nhưng phải giảm tốc độ, chú ý quan sát nhường đường cho người đi bộ qua đường hoặc các phương tiện khác theo quy định của Luật Giao thông đường bộ.

C. Nhanh chóng tăng tốc độ, vượt qua nút giao và chú ý đảm bảo an toàn.

D. Cả ý A và ý B.